Sveučilište u Zagrebu, Arhitektonski fakultet
RAZREDBENI ISPIT, ak.god.2015/16.

PROVJERA LIKOVNIH I GRAFIČKIH SPOSOBNOSTI

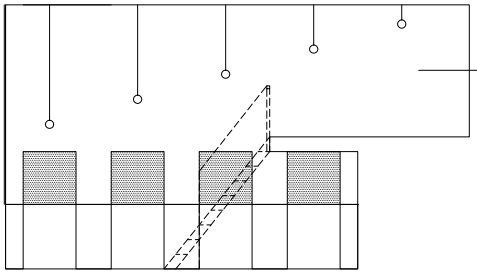

pogled **A** / presjek AA



pogled **B** / presjek B-B

Pred Vama su pogledi/presjeci na šest ploha jednog prostora označeni slovima od A do F.
Za pogled E kažemo da je tlocrt, F je pogled na strop.

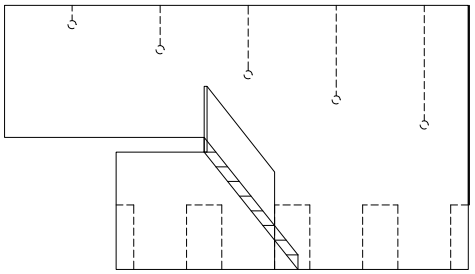

pogled **C** / presjek C-C

ZADATAK 1

Zamislite da su ti crteži otisnuti na unutrašnjost oplošja makete zadanog prostora.
Da bi tvorile maketu, plohe s crtežima mogu biti spojene na različite načine.
Odaberite jedan.

Nacrtajte oplošje kao oblik razvijen u prostoru prije sklapanja u maketu.
Neka sve plohe sa ucrtanim pogledima/presjecima budu vidljive.

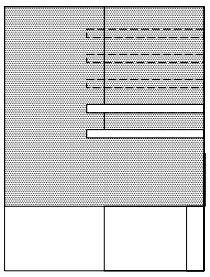

pogled **D** / presjek D-D

ZADATAK 2

Nacrtajte perspektivni prikaz zadanog prostora iz vizure pješaka koji prostor promatra izvana, zamišljajući da je ploha C prozirna.

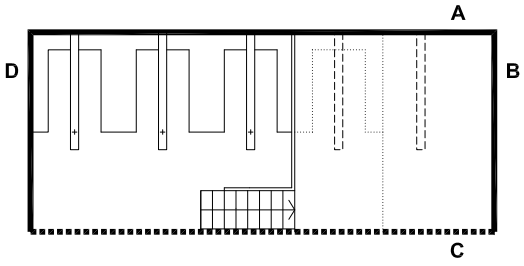

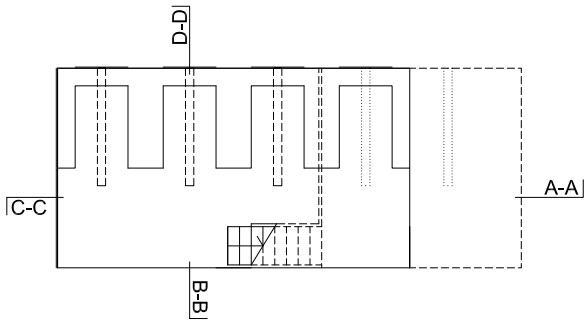

pogled **E** / tlocrt

ono što je iza/iznad Vas

ono što je iza/iznad Vas i zaklonjeno je plohom

prozirna ploha

neprozirna ploha

zrcalo

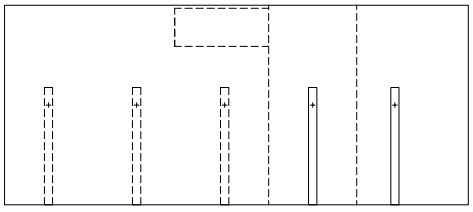

pogled **F** / strop